١) أوجد قيم المتغيرات :

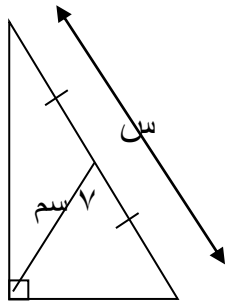

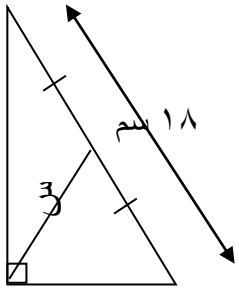

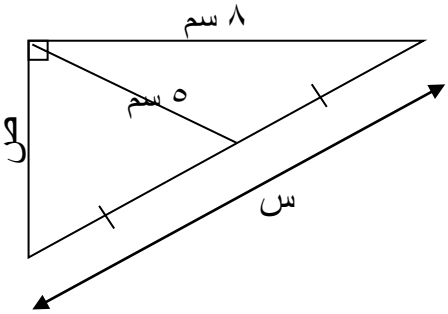

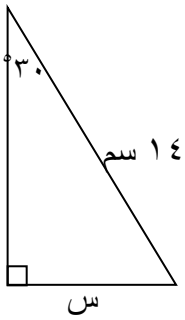

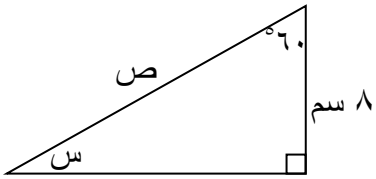

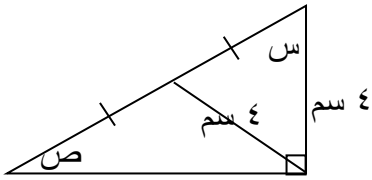

السؤال الثاني :

١) في الشكل المجاور: △ أ ب جـ قائم الزاوية في ب ، هـ منتصف $\overline{\text{أ جـ}}$ ، و منتصف $\overline{\text{أ ب}}$
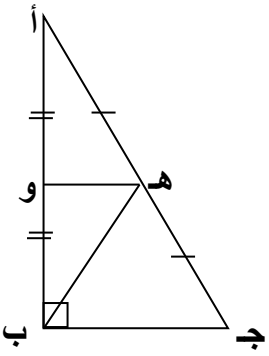
أ ب = ٨ سم ، ب جـ = ٦ سم أوجد بالبرهان : ١) طول $\overline{\text{أ جـ}}$ ٢) طول $\overline{\text{ب هـ}}$ ٣) طول $\overline{\text{هـ و}}$